> 12 galerie
6 bodů

? *Řešení šifry zadejte do webinfa.*

[zadání]

<	>	v	v	v	>	v	v	>	v	<
v	>	>	v	<	>	>	>	>	v	^
v	v	v	^	<	>	v	<	>	v	<
v	>	^								

<	>	v	v	v	>
v	v	>	v	<	v
>	>	v	<	>	>
>	>	v	^	v	v
v	^	<	>	v	<
>	v	<	v	>	^



<	>	v	v	v	>
v	v	>	v	<	v
>	>	v	<	>	>
>	>	v	^	v	v
v	^	<	>	v	<
>	v	<	v	>	^

<	>	v	v	v	>
v	v	>	v	<	v
>	>	v	<	>	>
>	>	v	^	v	v
v	^	<	>	v	<
>	v	<	v	>	^



<	>	v	v	v	>
v	v	>	v	<	v
>	>	v	<	>	>
>	>	v	^	v	v
v	^	<	>	v	<
>	v	<	v	>	^



[řešení]

Zobáčky spočítáme a zjistíme, že jich je 36. Z toho jich je 9 ve čtverečku. To zavání šifrovací mřížkou. Přepíšeme zadání do mřížky 6x6 a otáčením mřížky sepíšeme čtyři sekvence zobáčků. Tyto sekvence vnímáme jako instrukce pro pohyb tužky po papíře a graficky tak nakreslíme čtyři písmena řešení.

[vaše komentáře]